花蓮縣立吉安國民中學111學年度第二學期第一次段考社會科七年級考試卷

年　班　座號：　　姓名：

一、單一選擇題（每題2分，共60分）

1. (　)1895年臺灣進入日本殖民統治時期。請問：臺灣是在下列哪一事件後割讓給日本？
(A)施琅攻臺　(B)牡丹社事件　(C)甲午戰爭　(D)清法戰爭。

2. (　)日治時期，日本政府頒布哪一項法律，授權臺灣總督擁有立法、行政、軍事大權集於一身的權力？　(A)六三法　(B)保甲法　(C)戒嚴令　(D)皇民法。

3. (　)日軍登陸臺灣後，在臺北舉行始政典禮，正式開始在臺灣的統治。請問：日本人在臺灣設立的最高行政首長是下列何者？　(A)警察　(B)總督　(C)保正　(D)甲長。

4. (　)臺灣總督府為了獲取臺灣山林資源，但又受限於原住民不服管教，所以最後制定下列哪一項政策，試圖使原住民歸順臣服？
(A)警察制度　(B)五年理蕃計畫
(C)皇民化運動　(D)日臺合一政策。

5. (　)「1930年，經過多年痛苦的生活，不滿情緒已經累積到臨界點，□地區的原住民終於發出怒吼，以白晃晃的山刀起來反抗日本人。」請問：這段敘述中的缺空處，應是指下列何地？　(A)恆春　(B)苗栗　(C)霧社　(D)噍吧哖。

6. (　)1937年中日戰爭爆發後，日本為了提高臺灣人民對日本的向心力，故推動哪一項政策，欲讓臺灣人的語言、風俗、習慣等均與日本沒有差異？
(A)保甲制度　(B)皇民化運動
(C)警察政治　(D)殖民地特殊統治。

7. (　)某項專賣物品曾為臺灣總督府帶來巨大利益，也因為利潤豐厚遲遲無法全面禁止，導致1920年代飽受臺灣知識分子批評。請問：該專賣物品為何？　(A)鴉片　(B)樟腦　(C)酒　(D)菸。

8. (　)磯永吉在日本戰敗後留在臺灣，他所培育的新品種作物改變了臺灣農業發展，最後當他退休返回日本時，當時還獲頒中華民國景星勳章。請問：磯永吉培育的作物為何？
(A)蓬萊米　(B)在來米　(C)番茄　(D)釋迦

9. (　)1934年，何項建設的完工使得工業動力大幅增加？　(A)日月潭發電所　(B)翡翠水庫
(C)石門水庫　(D)嘉南大圳。

10. (　)臺灣的紡織、食品等工業有顯著的成長，主要導因於日治時期哪一政策的影響？
(A)工業臺灣，農業日本
(B)工業日本，農業臺灣
(C)皇民化運動
(D)南進政策。

11. (　)日本以南洋為侵略目標，是因為要獲得下列哪些資源？　(A)軍火、鹿皮　(B)茶葉、樟腦
(C)石油、橡膠　(D)稻米、甘蔗。

12. (　)日治時期的阿明在臺南務農，他的務農生活發生如附圖的轉變，是因為下列哪一件事？



(A)日月潭發電所完工　(B)新式糖廠的設立
(C)高雄港的整建　(D)嘉南大圳完工。

13. (　)古今中外，任何的人類社會都有屬於自己的文化，這顯示出文化的哪一項特性？　(A)普遍性　(B)累積性　(C)差異性　(D)制約性。

14. (　)某一群人所共享的生活方式，是人類社會特有的現象，此稱為下列何者？　(A)文法　(B)文化　(C)文明　(D)文物。

15. (　)被社會上多數人認同的價值、信仰和規範等，稱為下列何者？　(A)弱勢文化　(B)主流文化　(C)次文化　(D)異文化。

16. (　)照明設備的改良，從最早的火把、蠟燭、油燈，進步到現代的電燈，使生活更加舒適方便。從上述照明設備的演進中，可知文化具有下列哪一項特性？　(A)累積性　(B)普遍性　(C)制約性　(D)差異性。

17. (　)身處現代社會，以何種態度來面對多元文化，才是正確的價值觀？
(A)包容、尊重　(B)排斥、憎惡
(C)抗拒、抵制　(D)迎新、棄舊。

18. (　)緯賢到外籍友人家作客，看到小朋友很可愛，想要撫摸他們的頭表示親切，但被友人阻止，因為在他們的觀念裡，孩童頭上有神靈護佑，摸頭的舉動可能給小孩帶來厄運。對於上述的文化差異，緯賢應抱持何種心態？
(A)勸導外籍友人接受其他文化
(B)批判此傳統信仰觀念過度迷信
(C)對其文化多加了解及尊重
(D)堅持自身想法而拒絕改變做法。

19. (　)社會規範具有下列何種重要性？
(A)宣揚宗教教義　(B)維護社會秩序
(C)促進經濟發展　(D)限制個人自由。

20. (　)為了維持社會秩序，人與人的互動有一套行為準則，使人的行為有遵循的方向，知道哪些事應該做、哪些事不應該做，而這套行為準則稱為下列何者？
(A)社會規範　(B)自然法則
(C)因果循環　(D)宗教戒律。

21. (　)影響人口數量變化的因素有出生、死亡、移入、移出，其中哪兩項因素會造成一地人口數量的增加？　(A)出生、移出　(B)死亡、移入
(C)出生、移入　(D)死亡、移出。

22. (　)人口學上經常使用到「出生率、死亡率、移入率、移出率」等數值來表示該地區的人口變化情況，通常這些資料以下列何種單位來加以表示？
(A)十分率　(B)百分率
(C)千分率　(D)萬分率。

23. (　)以下哪一項因素是臺北市能吸引外來人口移入居住的拉力？　(A)地價低廉　(B)生活悠閒
(C)就業機會多　(D)空氣品質佳。

24. (　)我們若要分析一地每個有工作能力的人須扶養多少人口，最需要當地的哪一項人口組成特徵？
(A)性別組成　(B)年齡組成
(C)職業組成　(D)族群組成。

25. (　)政府積極提倡家庭計畫，喊出「兩個孩子恰恰好、三個孩子更熱鬧」與「孩子～是我們最好的傳家寶」等口號，這些都和以前的口號大異其趣。請問：這是受到今日臺灣人口哪一項特色的影響？　(A)人口移出率增加　(B)都市化速度快
(C)出生率大幅降低　(D)男女性別比例不均。

26. (　)附圖為桃園火車站周邊照片，由照片的內容判斷，應是哪一地區所帶來的文化？

(A)日本　(B)韓國　(C)東南亞　(D)阿拉伯。

27. (　)臺灣飲食具多樣性，成為吸引外國觀光客的亮點。請問：竹筒飯、山豬肉香腸是下列哪一個族群的美食？
(A)客家人　(B)原住民族
(C)閩南人　(D)戰後移民。

28. (　)臺灣有許多來自中國北方的移民，由於氣候乾燥，當地多種植何種作物，發展出多元的麵食文化？
(A)稻米　(B)小麥　(C)玉米　(D)高粱

29. (　)違反下列哪一種社會規範時，國家會以公權力處罰違反者？
(A)宗教信仰　(B)法律
(C)倫理道德　(D)風俗習慣。

30. (　)一個社會中長期累積的生活經驗，相沿成習、約定成俗的慣例，稱為下列何者？
(A)倫理道德　(B)宗教信仰
(C)風俗習慣　(D)法律。

二、壹分選擇題（每題 1 分，共 40 分）

31. (　)日本殖民統治時期，孩童若哭鬧時，長輩們只需恫嚇：「大人來了，再哭就會被抓去。」孩童立即安靜。請問：長輩們口中所稱的「大人」是指當時的何者？
(A)總督　(B)警察　(C)保正　(D)甲長。

32. (　)日治時期，臺灣各地抗日事件層出不窮，在今臺南市玉井區立有「抗日烈士余清芳紀念碑」。請問：這是為紀念余清芳領導哪一抗日事件的英勇事蹟？　(A)郭懷一事件　(B)西來庵事件
(C)霧社事件　(D)牡丹社事件。

33. (　)歷史老師上課時，說明附圖是 1930 年嘉南大圳完工的漫畫圖，圖中的人物應是下列何人？

(A)八田與一　(B)後藤新平
(C)莫那魯道　(D)施世榜。

34. (　)(甲)內地延長主義；(乙)殖民地特殊統治；(丙)皇民化運動。上述日本治臺政策依時間先後順序排列，下列何者正確？
(A)甲乙丙　(B)乙丙甲
(C)甲丙乙　(D)乙甲丙。

35. (　)臺灣割讓給日本初期，臺灣人民抗爭不斷，其中以哪些人領導的臺灣民主國讓人民懷抱希望？
(甲)劉銘傳；(乙)唐景崧；(丙)丘逢甲；(丁)沈葆楨
(A)甲乙　(B)乙丙　(C)乙丁　(D)甲丁。

36. (　)日本殖民統治時期，為了利用臺灣的資源，日人在臺的基礎建設有哪些？
(甲)林野調查；(乙)整建港口；
(丙)發行貨幣；(丁)完成環島鐵路；
(戊)普遍設立郵政
(A)甲乙丙丁　(B)乙丙丁戊
(C)甲乙丙戊　(D)甲丙丁戊。

37. (　)小平想趁暑假來趟西部鐵道的懷舊之旅，預計從基隆出發，沿途經臺北、新竹、臺中，最後抵達高雄。請問：這條西部縱貫鐵路最早在何時完成？
(A)鄭氏時期　(B)清帝國時期
(C)日治時期　(D)中華民國在臺灣時期。

38. (　)附圖為 1896～1906 年臺灣總督府田賦收入圖。請問：圖中收入突然大幅提升的原因為下列何者？

(A)實施土地調查　(B)實施理蕃政策
(C)實施林野調查　(D)實施專賣政策。

39. (　)「第一憨，種甘蔗予會社磅」這句話充分說明了臺灣蔗農被壓榨的情況，而這句話是從哪個時期開始流傳的？
(A)大航海時期　(B)鄭氏時期
(C)清帝國時期　(D)日治時期。

40. (　)第一次世界大戰結束後，臺灣第一位文官總督為因應民族自決的風潮，聲稱臺灣也是日本的「內地」，並標榜「日臺合一」。當時日本為安撫臺灣人，在臺灣實施什麼政策？
(A)內地延長主義政策
(B)殖民地特殊統治政策
(C)隔離政策
(D)皇民化運動。

41. (　)「小春在日治時期改名為春子，並且定期參拜日本神社，她的丈夫也被日本政府徵調到南洋去當軍伕。」根據上文判斷，小春所處的時期有可能為何？
(A)民族自決時期　(B)殖民地特殊統治時期
(C)皇民化運動時期　(D)內地延長主義時期。

42. (　)臺北市的人口密度為 9,918 人／平方公里，高居全臺之冠，周邊的新北市及桃園、新竹也名列前茅，而臺東縣僅 63 人／平方公里，為全臺之末。請問：影響上述人口分布的主要因素最可能為下列何者？
(A)行政區域調整　(B)自然環境優劣
(C)人口出生多寡　(D)就業機會數量。

43. (　)附圖是臺灣人口分布點圖，由圖可知影響臺灣人口分布最大的自然因素是下列何者？

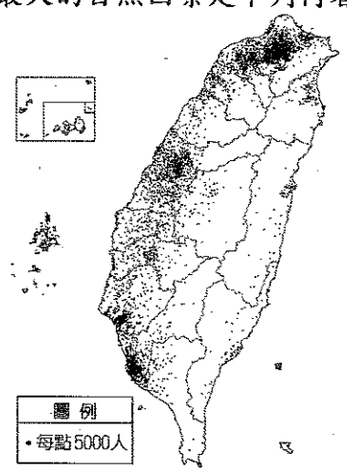

(A)地形　(B)降水量　(C)颱風　(D)氣溫。

44. (　)附圖為臺灣的人口分布點圖。請由圖中資料判斷，臺灣人口分布具有何種特色？

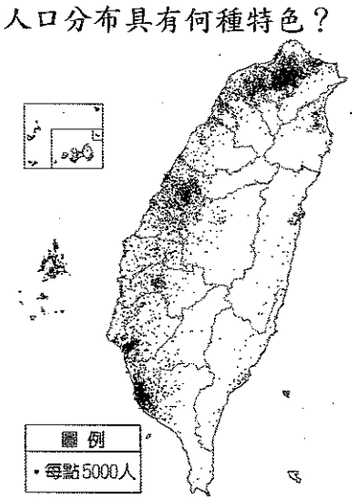

(A)集中於大都市　(B)南部多於北部
(C)東部多於西部　(D)集中於高山區。

45. (　)人口分布通常可用來判斷當地的自然與人文條件特色，我們若要進行相關研究，通常需要蒐集下列哪兩項資料？

甲	人口增加率
乙	人口總數
丙	人口結構
丁	土地總面積

(A)甲乙　(B)丙丁　(C)甲丙　(D)乙丁。

46. (　)附表為樂樂國 30 年來出生率、死亡率的變化情形。請問：1990 年該國的自然增加率約為多少？

	1980 年	1990 年	2000 年	2010 年
出生率（‰）	31.0	26.2	15.1	9
死亡率（‰）	8.1	6.0	5.2	5.1

(A) 22.9 ‰　(B) 20.2 ‰　(C) 9.9 ‰　(D) 3.9 ‰。

47. (　)附圖是臺灣周圍鄰國位置圖，其中甲國因為最近幾年嫁到臺灣的新住民愈來愈多的緣故，與臺灣的關係也愈來愈密切。請問：附圖中甲國應是下列何者？

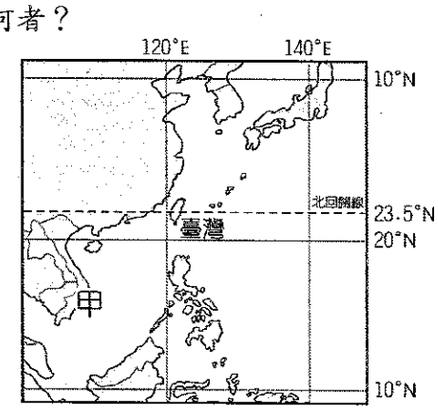

(A)日本　(B)南韓　(C)越南　(D)菲律賓。

48. (　)假設某地 2015 年 2 月時統計的人口總數為 1,000 萬人，其人口的年平均出生率是 15 ‰，死亡率是 3.5 ‰，那麼 2016 年 2 月其自然增加的人口數應為何？
(A) 15 萬人　(B) 11 萬 5 千人
(C) 8 萬 5 千人　(D) 3 萬 5 千人。

49. (　)臺灣四十多年來歷經社會經濟的改變，人口組成出現明顯的變化。請問：下列何者最接近目前的狀況？

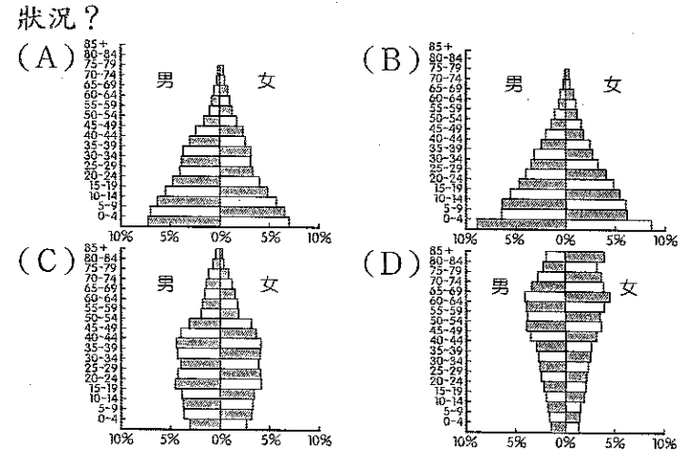

50. (　)附圖為臺灣在民國 40 ～ 65 年的人口出生率和死亡率的曲線變化圖。根據圖中資料判斷，下列何時的人口自然增加率最低？

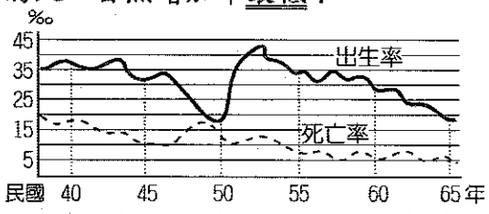

(A)民國 40 年　(B)民國 45 年　(C)民國 50 年　(D)民國 60 年。

51. (　)臺中后豐鐵道的「9 號隧道」建於西元 1908 年，全長 1.2 公里，是臺鐵舊山線最長的一座隧道，隧道北口還有當時民政長官題字「潛行不窒」。請問：題字的民政長官為下列何人？　(A)磯永吉　(B)八田與一　(C)後藤新平　(D)莫那魯道。

52. (　)幾位同學正在閒聊稍早參觀展覽會時的見聞，如附圖所示，對話中提到的互動關係，應屬於何種社會規範的範疇？

(A)倫理道德　(B)風俗習慣　(C)宗教信仰　(D)法律

53. (　)「一名公車司機撿到 20 萬元，因擔心失主有急用，馬上送至警察局，該名失主為了感謝司機，包了一個紅包要送他，但司機婉拒並稱這是應該的，經媒體報導後，輿論稱讚司機拾金不昧且有善心。」上述中，這名司機被稱讚的不僅只是守法，還包含遵守下列何種社會規範？
(A)風俗習慣　(B)倫理道德
(C)宗教信仰　(D)法律。

54. (　)下列何者在說明文化的「制約性」？
(A)文化具有約束的力量，使相同文化中的人表現出合乎該文化應有的行為舉止
(B)每個社會都有隆重慶祝結婚的儀式
(C)每個社會為了因應地理環境的特性，發展出不同的文化
(D)文化會藉由語言、文字，一代一代的累積和延續。

55. (　)以下為某雜誌刊登的臺灣文化速寫觀察，這篇文章的主題應與下列何者最相關？

> 臺灣年輕人愛吃炸雞、漢堡和可樂，上班族人手一杯咖啡，這些都是美國電影、美劇經常出現的場景，不知何時起，卻成為臺灣生活的日常。

(A)殖民地政府的文化擴張運動
(B)在地傳統飲食文化的獨特性
(C)弱勢文化對文化位階的抵抗
(D)強勢文化傳播的媒體影響力。

56. (　)臺灣境內哪一個地區最可能出現人口密度過高的情況，必須有效解決居住及生活空間不足的問題？　(A)雲林縣　(B)花蓮縣
(C)南投縣　(D)臺北市。

57. (　)人口移動可以分成「拉力」和「推力」兩種。下列哪一項因素是促使東南亞民眾願意遠離家鄉來到臺灣的「拉力」？
(A)經濟發達　(B)礦產豐富
(C)平原廣大　(D)氣候優良。

58. (　)新北市是臺灣新住民人口最多的城市，當地華新街逐漸形成南洋美食商圈。政府每年四月中旬在中和舉辦潑水節，不僅提升市民對東南亞文化的了解，並促進觀光產業發展。請問：這是屬於何種表現？　(A)資訊科技　(B)多元文化
(C)原漢融合　(D)提升經濟。

59. (　)Mary 從美國嫁到臺灣，並在臺灣定居下來。請問：她的遷移是屬於下列哪一種？
(A)國際永久性遷移　(B)國內永久性遷移
(C)國際暫時性遷移　(D)國內暫時性遷移。

60. (　)清領初期，清廷曾頒布渡臺禁令，其部分內容如附圖所示。請問：這項政策實施後，對於當時臺灣的哪一項人口要素的影響最大？

> 壹、要欲渡海來臺者，先給原籍地方照單，經分巡臺廈兵備道稽查，依臺灣海防同知審驗批准，偷渡者將會受到嚴懲。
> 貳、渡臺者不准攜帶妻兒家眷。

(A)社會增加率　(B)自然增加率
(C)人口死亡率　(D)人口出生率。

61. (　)青少年有屬於自己的語言、服裝、喜好等，這種屬於青少年特有的行為模式，稱為下列何者？
(A)青少年叛逆文化　(B)青少年主流文化
(C)青少年次文化　(D)青少年低俗文化。

62. (　)兩位原住民族於參加祭典活動時相聚，根據附圖可知，兩人談論的內容應屬於哪一類的社會規範？



(A)倫理道德　(B)風俗習慣
(C)宗教信仰　(D)法律。

63. (　)附圖中媽媽的叮嚀屬於下列哪一種社會規範？

(A)法律　(B)宗教信仰　(C)倫理道德　(D)風俗習慣

64. (　)啟玲聽到一場演講，部分內容如附圖所示。請問：這位演講者演說的內容較可能與下列何者有關？

(A)終身學習　(B)個人潛能
(C)政治理念　(D)社會規範。

65. (　)花東地區長期以來都存在著人口外流的問題，這與下列哪一因素關係最大？
(A)生活環境差　(B)就業機會少
(C)農業條件不佳　(D)治安惡化。

66. (　)「父子有親、長幼有序、朋友有信」是哪一種社會規範？
(A)宗教信仰　(B)倫理道德
(C)法律　(D)風俗習慣。

67. (　)俗話說：「舉頭三尺有神明。」這是藉由下列哪一種社會規範來勸人為善？
(A)倫理道德　(B)宗教信仰
(C)風俗習慣　(D)法律。

68. (　)蓁雅與庭毅正對某名詞解釋交換意見，他們所討論者，應為以下哪一項？

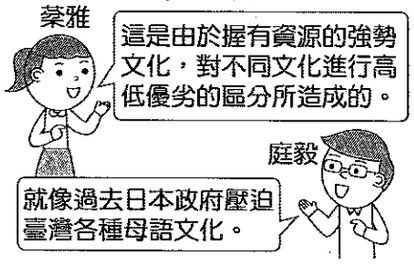

(A)文化位階　(B)文化差異
(C)主流文化　(D)次文化。

69. (　)妍琪蒐集資料時看到附圖的現象，根據內容，以下何者說明正確？

(A)以法國與臺灣社會相比，生活文化較為文明先進
(B)多加了解每個文化的風俗習慣，可避免發生誤解
(C)弱勢文化應認同強勢文化的價值觀，減少差異性
(D)許多傳統文化不符時宜，阻礙世界多元文化發展。

70. (　)每天早上王先生（45歲）出外上班，王太太（43歲）便在家中整理家務。兒子大寶已經23歲，而女兒小孟才11歲，因此對於子女的教養兩夫妻相當重視。家中尚有王老先生（70歲）同住，是典型三代同堂的家庭。請問：就人口結構而言，上文中的受扶養人口共有幾位？
(A)一位　(B)二位　(C)三位　(D)四位。

花蓮縣立吉安國民中學111學年度第二學期第一次段考社會科*七年級*作答卷

一、單一選擇題（每題2分，共60分）

1、（　　）
2、（　　）
3、（　　）
4、（　　）
5、（　　）
6、（　　）
7、（　　）
8、（　　）
9、（　　）
10、（　　）
11、（　　）
12、（　　）
13、（　　）
14、（　　）
15、（　　）
16、（　　）
17、（　　）
18、（　　）
19、（　　）
20、（　　）
21、（　　）
22、（　　）
23、（　　）
24、（　　）
25、（　　）
26、（　　）
27、（　　）
28、（　　）
29、（　　）
30、（　　）

二、壹分選擇題（每題1分，共40分）

31、（　　）
32、（　　）
33、（　　）
34、（　　）
35、（　　）
36、（　　）
37、（　　）
38、（　　）
39、（　　）
40、（　　）
41、（　　）
42、（　　）
43、（　　）
44、（　　）
45、（　　）
46、（　　）
47、（　　）
48、（　　）
49、（　　）
50、（　　）
51、（　　）
52、（　　）
53、（　　）
54、（　　）
55、（　　）
56、（　　）
57、（　　）
58、（　　）
59、（　　）
60、（　　）
61、（　　）
62、（　　）
63、（　　）
64、（　　）
65、（　　）
66、（　　）
67、（　　）
68、（　　）
69、（　　）
70、（　　）