花蓮縣立吉安國民中學111學年度第二學期第一次段考社會科八年級考試卷

年　班　座號：　　姓名：

一、單一選擇題（每題2分，共60分）

1. (　)為強化本區競爭力，東南亞國家透過結盟成立哪一個經濟組織，加強區域經濟合作與發展？
(A)世界貿易組織　(B)東南亞國家協會
(C)北美自由貿易協定　(D)亞太經濟合作會議

2. (　)美國在美西戰爭後，將其勢力伸入菲律賓群島。請問：美國文化在當地所造成的影響，以下列何者最為明顯？
(A)宗教信仰　(B)礦產開發
(C)語言文字　(D)熱帶栽培業。

3. (　)附圖是某種食品的標章，何種信仰的人以食用此種標章的食物為主？

(A)佛教　(B)印度教　(C)基督教　(D)伊斯蘭教。

4. (　)東南亞為亞洲主要的農產品出口地區，該地區的主要商業性農業作物為下列何者？
(A)小麥　(B)棉花　(C)橄欖　(D)咖啡。

5. (　)中南半島受到外來文化的影響，境內多數國家主要以下列何種宗教信仰為主？
(A)伊斯蘭教　(B)基督宗教
(C)印度教　(D)佛教。

6. (　)東南亞受到外來文化的影響極為明顯。請問：目前南洋群島中的國家多以信仰下列何種宗教為主？
(A)伊斯蘭教　(B)印度教
(C)天主教　(D)佛教。

7. (　)附圖是印度的某種制度，圖中四種階級彼此不通婚，身分、職業世襲。此制度應為何？

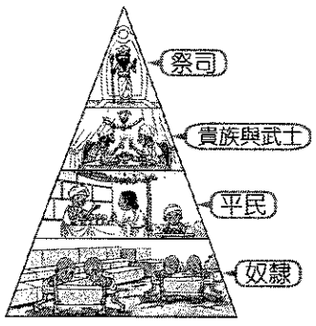

(A)種族　(B)種姓　(C)井田　(D)莊園。

8. (　)每年的6至10月為印度的雨季，氣候溼熱多雨，為當地重要的農業耕作季節。請問：該地區雨季最主要是下列哪一個季風風向所帶來的水氣？
(A)東北季風　(B)西北季風
(C)東南季風　(D)西南季風。

9. (　)印度的人口多，因此如何提供充足的糧食成為該國的重要課題。附圖中該國境內何處由於受到氣候限制的影響，因此多以灌溉方式來從事農作，雖然增加了糧食生產，卻也造成鹽鹼化的問題愈趨嚴重？

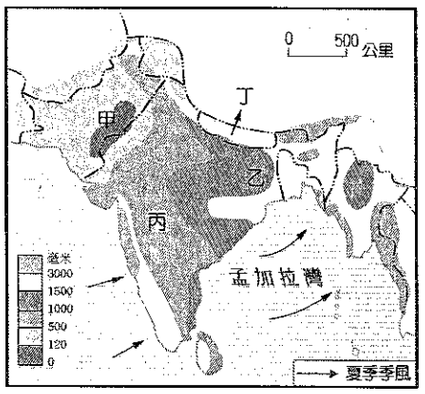

(A)甲　(B)乙　(C)丙　(D)丁。

10. (　)魯迅曾於《新青年》雜誌上發表小說《狂人日記》，文中使用新式標點符號。請問：魯迅是在何種背景下發表此篇小說？
(A)革命運動　(B)立憲運動
(C)新文化運動　(D)庚子後新政。

11. (　)「收回山東權利」、「廢除二十一條」、「外爭主權，內除國賊」，上述示威訴求口號出現於何時？
(A)武昌起事　(B)五四運動
(C)二次革命　(D)義和團事件。

12. (　)新文化運動時期的德先生和賽先生指的是下列何者？
(A)民族、理性　(B)民主、科學
(C)民主、工業　(D)民族、科學。

13. (　)民國8年的「五四運動」，起因於巴黎和會中，允許何國繼承德國在山東的權利？
(A)英國　(B)日本　(C)美國　(D)蘇聯。

14. (　)每年10月10日是中華民國的國慶日。請問：國慶日的由來與下列何者有關？
(A)立憲運動　(B)武昌起事
(C)廣州黃花岡之役　(D)甲午戰爭。

15. (　)革命成功後，多個政治團體合組為一個新政黨，主張實施政黨政治。請問：上述的新政黨為下列何者？
(A)時代力量　(B)民眾黨
(C)國民黨　(D)民進黨。

16. (　)1911年，由於清廷損及民生的錯誤政策，使得各地掀起大規模的反抗運動，其中以四川最為激烈，清廷急調動湖北軍隊入四川鎮壓，導致湖北兵力空虛，革命黨人趁機發動起義成功。請問：上述在四川爆發的反抗運動為何？
(A)維新運動　(B)保路運動
(C)自強運動　(D)立憲運動。

17. (　)民國初年，軍閥統治期間，軍閥間若發生衝突，他們解決問題的途徑是透過哪一種方式？
(A)由北京政府協商　(B)以武力解決
(C)由國會協商　(D)由列強介入協商。

18. (　)公民老師為今天的上課內容準備了四張海報，如附圖。請問：老師介紹的主題應與哪一部法律有關？

(A)《憲法》　(B)《民法》
(C)《性別工作平等法》　(D)《社會秩序維護法》。

19. (　)依照《民法》規定，請求返還借款期限一般而言是 15 年，這是基於下列何項原則？
(A)權利禁止濫用原則　(B)誠實信用原則
(C)消滅時效　(D)契約自由原則。

20. (　)侑辰正在參加益智問答遊戲，他抽到的題目如下所示，他應該回答什麼才能得到分數？

□□原則　(5 分) 內涵：雙方當事人訂立契約時，必須在誠實無欺的狀態下。 特色：本原則是倫理價值的崇高表現。

(A)契約自由原則　(B)消滅時效
(C)誠實信用原則　(D)權利禁止濫用原則。

21. (　)《民法》規定，下列哪一個年齡層雖已具備部分生活經驗或判斷能力，但為避免他們年紀尚輕，判斷能力尚顯不足，其法律行為原則上必須得到法定代理人同意，才屬有效？
(A)年滿 18 歲的成年人
(B)7 歲以上未滿 18 歲的未成年人
(C)受監護宣告者
(D)未滿 7 歲的兒童。

22. (　)依照《民法》的規定，下列哪一個年齡層，其行為在法律上具有完全效力，可以自行與他人簽訂契約？
(A)年滿 18 歲　(B)年滿 16 歲
(C)年滿 14 歲　(D)年滿 7 歲。

23. (　)當事人雙方私下訂立契約來解決紛爭的方法，稱為什麼？
(A)訴訟上和解　(B)強制執行
(C)調解　(D)私下和解。

24. (　)峻銘正研究民事訴訟的過程，他歸納出一組在法庭上立場中立的司法人員，應為下列何者？
(A)法官、證人、書記官
(B)法官、通譯、書記官
(C)被告、通譯、被告律師
(D)原告、證人、原告律師。

25. (　)附圖中兩人所指的處理方式應為下列何者？

(A)調解　(B)訴訟　(C)私下和解　(D)訴訟上和解。

26. (　)附表中關於「訴訟上和解」與「私下和解」的比較，下列何者正確？

項目	訴訟上和解	私下和解
(甲)方式	當事人私下訂立的和解契約	當事人在提起訴訟後，在法官面前達成和解
(乙)主管機關	無	法院
(丙)效力	等同法院判決，具強制力	原則上無強制力
(丁)特色	是民事糾紛最為簡便的處理方式	是民事糾紛最後的手段

(A)甲　(B)乙　(C)丙　(D)丁。

27. (　)網路購物盛行，許多民眾透過網路下單購買需要的物品。依照附圖所示，老闆的處理方式可視為下列何種概念的表現？

(A)契約自由原則　(B)誠實信用原則
(C)權利禁止濫用原則　(D)消滅時效。

28. (　)小綜是個國中生，與經紀公司談好合約並簽約，不過這份合約必須得到法定代理人同意才有效，這是因為小綜在法律上屬於下列何者？
(A)限制行為能力人　(B)無行為能力人
(C)受監護宣告者　(D)完全行為能力人。

29. (　)根據附圖中兩人的對話判斷，此筆交易的效力如何？



(A)成立，基於契約自由原則
(B)成立，因經父母同意
(C)無法成立，因為小女孩屬於無行為能力人
(D)無法成立，因為小女孩無法刷卡。

30. (　)依照《民法》規定，損害賠償責任是以什麼為原則？
(A)照價收買　(B)金錢賠償
(C)回復原狀　(D)以新代舊。

二、壹分選擇題（每題1分，共40分）

31. (　)東南亞依其位置不同，主要分為下列哪兩個地形區？
(A)中南半島、朝鮮半島
(B)朝鮮半島、琉球群島
(C)中南半島、南洋群島
(D)印度半島、南洋群島。

32. (　)新加坡位於麻六甲海峽東側出口，控制哪兩大海洋之間的交通往來？
(A)大西洋、太平洋　(B)大西洋、印度洋
(C)太平洋、印度洋　(D)印度洋、北極海。

33. (　)南洋群島因為地處赤道兩側地區，因此氣候類型主要為下列何者？

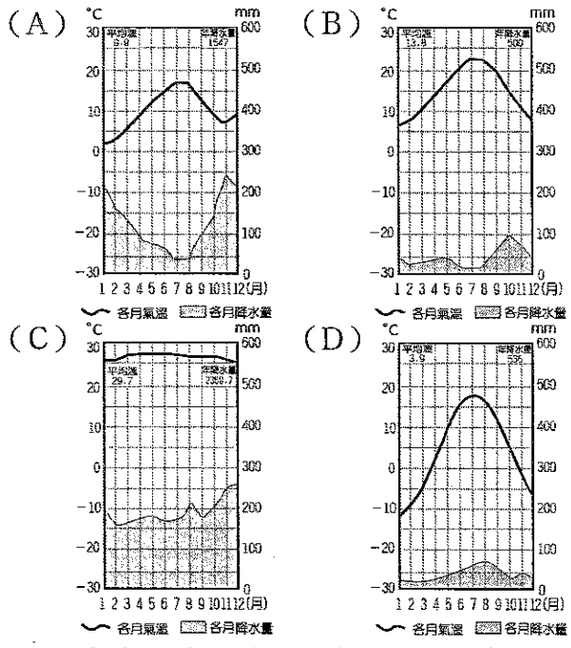

34. (　)2011年泰國發生嚴重水患，河川沿岸都市紛紛為惡水吞沒，造成汽車零組件短缺及電腦硬碟缺貨，價格飆漲。首都曼谷由於位於何種地形上，飽受威脅？
(A)山坡台地　(B)沖積扇
(C)三角洲　(D)氾濫平原。

35. (　)新加坡為東南亞經濟最發達的國家，下列有關新加坡的敘述，何者正確？
(A)地處內陸　(B)港埠型都市
(C)礦產產區　(D)農業地區。

36. (　)熱帶栽培業為東南亞重要產業活動。請問：該產業活動特色主要為下列何者？
(A)生產糧食作物　(B)作物自給為主
(C)大量生產外銷　(D)高度機械化。

37. (　)位於熱帶島嶼的馬爾地夫，碧海藍天的景象、清澈見底的海水及豐富的珊瑚礁景觀吸引了大批人潮，為著名的觀光度假勝地。可惜在2004年聖誕節當天的一場災害——南亞大海嘯後，當地大部分都市都被海水所淹沒，損失極為慘重。請問：該島嶼位於下列哪一個海洋？
(A)太平洋　(B)大西洋
(C)地中海　(D)印度洋。

38. (　)在高聳入雲的喜馬拉雅山下，靜靜的橫躺著橫貫千里的大平原，蜿蜒漫長的河流敘述著悠久宏大的古文明。印度半島的印度大平原主要由來自於聖山的河川所沖積而成，土壤肥沃。請問：該地區主要是由印度河和下列哪一條河川所沖積而成的？
(A)恆河　(B)尼羅河
(C)昭披耶河　(D)湄公河。

39. (　)南亞因喜馬拉雅山冬季阻擋了下列哪一個季風風向，因此形成涼爽宜人的氣候特色？
(A)東北季風　(B)西北季風
(C)東南季風　(D)西南季風。

40. (　)印度半島的地形區可分為：(甲)喜馬拉雅山(乙)德干高原(丙)印度大平原。若由北向南排列，其正確順序為何？
(A)甲乙丙　(B)甲丙乙
(C)乙甲丙　(D)丙乙甲。

41. (　)東南亞的氣候依其地理位置的不同，主要分為下列哪兩種氣候類型？(甲)熱帶雨林氣候(乙)熱帶莽原氣候(丙)熱帶季風氣候(丁)熱帶沙漠氣候
(A)甲乙　(B)甲丙　(C)乙丁　(D)丙丁。

42. (　)南亞的氣候類型可分為涼季、熱季、雨季。請問：在印度半島上的哪一個國家每年雨季來臨時，最容易因為地勢低窪及夏季西南季風的影響，造成洪水為患？
(A)不丹　(B)尼泊爾
(C)孟加拉　(D)巴基斯坦。

43. (　)西元8世紀，受阿拉伯人貿易活動影響，使何種宗教傳入南亞，巴基斯坦和孟加拉多信奉此宗教？
(A)猶太教　(B)基督教
(C)印度教　(D)伊斯蘭教。

44. (　)南亞各國的宗教信仰中，下列哪些國家以伊斯蘭教為主？
(A)尼泊爾、印度　(B)印度、斯里蘭卡
(C)巴基斯坦、孟加拉　(D)孟加拉、印度。

45. (　)南亞的宗教信仰相當分歧，其中哪一個國家境內主要以佛教為宗教信仰？
(A)印度　(B)孟加拉
(C)巴基斯坦　(D)斯里蘭卡。

46. (　)印度哪一個都市因為軟體工業相當發達，因此被稱為「印度矽谷」？
(A)孟買　(B)新德里
(C)邦加羅爾　(D)加爾各答。

47. (　)印度半島的東北部丘陵，正當夏季西南季風的迎風坡，氣候溫溼多雨。請問：該地區最主要的經濟作物可能為下列何者？
(A)茶葉　(B)棉花　(C)甘蔗　(D)黃麻。

48. (　)中國有一位學者認為：「中國文化教育須從專制封閉擺盪到民主開放，因此在他擔任北京大學校長期間，鼓勵自由學風，廣納各種思想。」請問：上述學者應是下列何人？
(A)蔡元培　(B)胡適　(C)陳獨秀　(D)魯迅

49. (　)中國共產黨於何時成立？
(A)民國元年　(B)民國 2 年
(C)民國 8 年　(D)民國 10 年。

50. (　)何人介紹西方文化，批評傳統，創立《青年雜誌》，揭開了新文化運動的序幕？
(A)蔡元培　(B)陳獨秀　(C)魯迅　(D)胡適

51. (　)附圖為一則民國初年的廣告單。請問：這時候的人們開始意識到下列何者的重要性？

(A)女性進入職場　(B)鼓吹男女平權
(C)接受日式教育　(D)適合兒童的教育方法。

52. (　)清末民初婦女地位的提高，不包括下列何者？
(A)參與五四運動　(B)進入大學就讀
(C)主張男女平等　(D)遵守「男女授受不親」的觀念。

53. (　)今天普遍使用通俗易懂的白話文，是由於哪兩人發起文學革命的影響？
(A)孫中山、蔣中正　(B)胡適、陳獨秀
(C)胡適、梁啟超　(D)康有為、胡適。

54. (　)孫中山創立興中會，展開革命行動，是受到下列哪一次戰爭的影響？
(A)鴉片戰爭　(B)英法聯軍
(C)八國聯軍　(D)甲午戰爭。

55. (　)革命黨人於西元 1911 年推翻滿清，於隔年建立中華民國。請問：中華民國的臨時政府建立於何地？
(A)北京　(B)西安　(C)廣州　(D)南京。

56. (　)附圖為中國第一個革命組織成立時的情況，由圖可知該組織為何？



(A)興中會　(B)義和團　(C)保路同志會　(D)國民黨

57. (　)民國 4 年，中國被迫同意日本所提出「二十一條要求」中的大部分條件，認可日本在何地的特殊權益？
(A)山東　(B)東北　(C)雲南　(D)廣東。

58. (　)袁世凱曾說：我不怕孫文，我最怕的是宋教仁。宋教仁在參與革命團體期間，籌畫地下組織，累積人脈。民國 2 年，國民黨贏得國會大選，當時擔任國民黨代理理事長的宋教仁具有黨魁的身分。如果沒有發生宋教仁遭刺殺事件，則依法宋會是首任中華民國總理。請問：題幹所說的依法，是依據下列何種法律？
(A)《中華民國刑法》
(B)《動員戡亂時期臨時條款》
(C)《中華民國憲法》
(D)《中華民國臨時約法》。

59. (　)時間回到民國元年，南京——中華民國臨時政府所在地，臨時大總統正在密會掌握強大軍權的某位北方人士，希望可以藉由該人士的力量，一舉剷除滿清剩餘勢力。請問：這位北方人士應是何人？
(A)孫中山　(B)蔣中正
(C)溥儀　(D)袁世凱

60. (　)民初由孫中山號召部分國會議員南下「護法」。請問：所謂的「護法」主要是維護哪一法統？
(A)《臨時約法》　(B)《民法》
(C)《六三法》　(D)《中華民國憲法》。

61. (　)民國 5 年，中國政治局勢愈益不安，軍閥違法亂紀層出不窮，這樣的現象與何人去世有關？
(A)孫中山　(B)慈禧太后
(C)袁世凱　(D)溥儀。

62. (　)依照附圖情境判斷，關於圖中兩人行為在法律上的意義，下列敘述何者正確？



(A)該契約因兩人意思表示一致而成立
(B)該行為屬於《民法》上的身分關係
(C)兩人溝通的內容屬於租賃契約
(D)契約成立，小珞成為子賢的債權人。

63. (　)依照附圖情境，下列敘述何者正確？

(A)雙方已簽訂買賣契約　(B)房客有支付房租的權利
(C)房東有取得房租的義務
(D)屬於《民法》中規範私人間財產上的權利義務關係。

64. (　　)薇崙閱讀歷史故事書籍，發現當中有許多例子符合我國現今法律「契約自由原則」，下列何者即屬之？
(A)張三向李四借錢，雙方白紙黑字載明
(B)地主買下數名奴僕，供莊稼耕種人力
(C)孝女賣身葬父，陳員外同意此筆交易
(D)男子無力償還賭債，約定以子女抵債。

65. (　　)銘怜在做公民報告時需要一則「債務不履行」的民事糾紛案例，下列哪一則新聞符合她的需求？
(A) 鄰居盆栽遭颱風吹落，砸壞一樓住戶屋頂

(B) 機車肇事撞上跑車，賠償金額高達 20 萬

(C) 飯店未能依契約提供場地，新人婚禮泡湯

(D) 記者未經同意，將傷者照片上傳社群媒體


66. (　　)附圖情境中，房東依法可以採取何種方式來保障自己的權益？


(A)要求房客將房間回復原狀　(B)強制扣留房客的財物
(C)要求房客加付 10 倍房租　(D)迫使房客延長租約時間

67. (　　)根據附圖情境判斷，下列敘述何者正確？

(A)基於契約自由原則，阿賢可以拒絕購買
(B)若雙方協議不成，阿賢可以取消購買
(C)老闆可以要求阿賢賠償此筆交易的損失
(D)阿賢必須負起回復原狀的賠償責任。

68. (　　)關於以下新聞所指民事糾紛的處理方式，下列敘述何者最正確？

新聞焦點
根據內政部資料，2021 年調解案例成立有 10.1 萬餘件，占總調解案件比例為 81.3%，創下歷年新高。

(A)法官在過程中會強制介入
(B)僅具有民事契約的效力
(C)成立後，可再提起訴訟
(D)由公正第三人居中協調。

69. (　　)同學們在課堂上以演戲的方式來理解訴訟程序，下列哪一個人是扮演「律師」的角色？
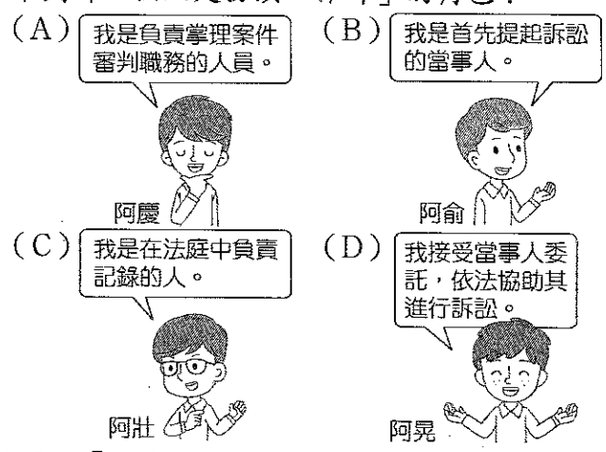

70. (　　)關於「民事訴訟」的敘述，下列何者正確？
(A)此為針對犯罪行為向法院所提出的訴訟
(B)得由檢察官進行偵查後，認為必要時向法院提起訴訟
(C)法官會主動介入訴訟案件的調查與蒐證工作
(D)必須由當事人主動提出，法院才會審理。

花蓮縣立吉安國民中學111學年度第二學期第一次段考社會科八年級作答卷

一、單一選擇題（每題2分，共60分）

1、（　　）
2、（　　）
3、（　　）
4、（　　）
5、（　　）
6、（　　）
7、（　　）
8、（　　）
9、（　　）
10、（　　）
11、（　　）
12、（　　）
13、（　　）
14、（　　）
15、（　　）
16、（　　）
17、（　　）
18、（　　）
19、（　　）
20、（　　）
21、（　　）
22、（　　）
23、（　　）
24、（　　）
25、（　　）
26、（　　）
27、（　　）
28、（　　）
29、（　　）
30、（　　）

二、壹分選擇題（每題1分，共40分）

31、（　　）
32、（　　）
33、（　　）
34、（　　）
35、（　　）
36、（　　）
37、（　　）
38、（　　）
39、（　　）
40、（　　）
41、（　　）
42、（　　）
43、（　　）
44、（　　）
45、（　　）
46、（　　）
47、（　　）
48、（　　）
49、（　　）
50、（　　）
51、（　　）
52、（　　）
53、（　　）
54、（　　）
55、（　　）
56、（　　）
57、（　　）
58、（　　）
59、（　　）
60、（　　）
61、（　　）
62、（　　）
63、（　　）
64、（　　）
65、（　　）
66、（　　）
67、（　　）
68、（　　）
69、（　　）
70、（　　）