花蓮縣立吉安國民中學 111 學年度第二學期社會科第一次段考試卷

九 年 __ 班 座號：__ 姓名：

一、單一選擇題 每題2分，請將答案填入答案卡中

1. 靜香同學閱讀某歷史資料，整理出其中的關鍵字，包括：「獨立宣言、成文憲法、三權分立、聯邦政府…。」請問：根據上述關鍵字判斷，下列哪一位歷史人物，最有可能出現在她閱讀的歷史資料中？ (A)門羅 (B)拿破崙 (C)玻利瓦 (D)華盛頓 。

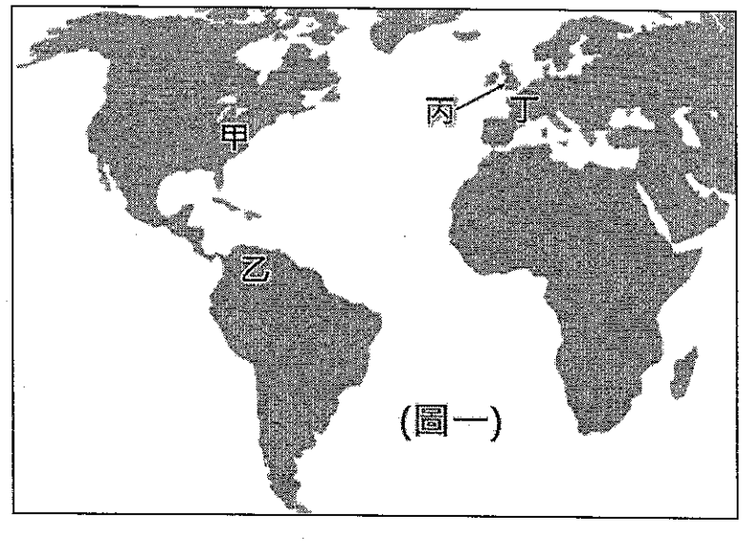

(圖一)

2. 十九世紀起，一些被稱為「帝國主義」的國家，帶著工業化的優勢，對其他民族或地區進行侵略或壓迫。請問：下列何者並非上述國家侵略或操控的對象？ (A)拉丁美洲 (B)埃及 (C)印度 (D)伊比利半島 。

3. 西元 1773 年某國國會通過《茶稅法》後，引發部分人民的不滿，認為國會中並無他們的代表，政府無權向他們強 行徵稅。同年年底，憤怒的群眾將進口的茶葉拋入海中， 表達對政府的抗議。請問：關於上述「某國國會」，意指右圖(圖一)中的何國？ (A)甲國 (B)乙國 (C)丙國 (D)丁國。

4. 承上題，上述「茶葉拋入海中」的事件發生在何地？ (A)華盛頓 (B)倫敦 (C)波士頓 (D)巴黎 。

5. 有位政治家說道：「國際外交上，無永遠的盟邦，也沒有長久的敵人，只有永遠的利益。」回溯歷史來看，國與國之間的立場，的確時而對立，時而步調一致。請問：關於十九世紀初期，拉丁美洲的獨立建國運動，下列哪一組國家的立場，一致傾向支持？ (A)英國、美國 (B)西班牙、法國 (C)美國、西班牙 (D)英國、葡萄牙 。

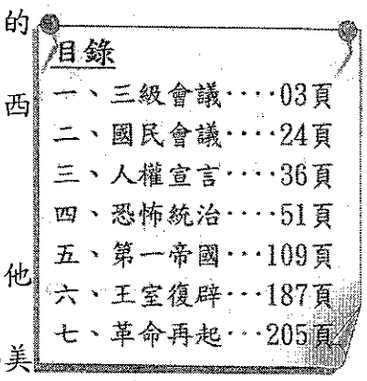
目錄
一、三級會議‥‥03頁
二、國民會議‥‥24頁
三、人權宣言‥‥36頁
四、恐怖統治‥‥51頁
五、第一帝國‥‥109頁
六、王室復辟‥‥187頁
七、革命再起‥‥205頁
(圖二)

6. 某日，小夫同學對歷史老師介紹的事件非常感興趣，下課後迫不及待到圖書館借書。他翻開該書，瀏覽目錄如右圖(圖二)。請問：該書的內容，應與下列何者最為相關？(A)美國的建國與擴張 (B)民族主義與新興國家 (C)法國大革命與維也納會議 (D)古希臘、羅馬文化的復興

7. 承上題，假如小夫同學想知道關於「羅伯斯比」掌權後事蹟，他最有可能在下列哪一頁中看到相關的資料？(A)第51 頁 (B)第109 頁 (C)第187 頁 (D)第205 頁。

8. 胖虎同學，段考前整理「十九世紀新興國家建國運動」的重要人物，如右圖(圖三)。請問：根據圖中內容判斷，○○○○最適合填入下列何者？ (A)社會主義 (B)保守主義 (C)民族主義 (D)達爾文主義 。

○○○○建國運動的重要人物：
【馬志尼】 俾斯麥 威廉一世
玻利瓦 【加富爾】 【加里波底】
(圖三)

9. 承上題，請問：圖中【】框出三位歷史人物，應與下列何地的建國運動有關？ (A)美國 (B)義大利 (C)拉丁美洲 (D)德意志 。

10. 西元 1860年，加里波底率領一支千人紅衫軍南下征討，成功地驅逐外國勢力，收復了兩西西里地區。請問： 關於上述的「外國勢力」是指下列何者？ (A)西班牙 (B)奧地利 (C)英國 (D)法國 。

11. 清朝官員李鴻章，在1896年的一次外交出訪中，專程去拜訪他敬重的俾斯麥，並向他請教國家改革與強國之道。請問：下列哪一項敘述，最有可能是俾斯麥的回答？ (A)成立「關稅同盟」 (B)推翻君主、改行共和 (C)實施社會主義 (D)組織軍隊、發動戰爭 。

12. 哆拉A夢穿越時空，意外地促成三位歷史人物的會面，他們分別是「巴比倫王漢摩拉比、拜占庭皇帝查士丁尼和法蘭西皇帝拿破崙」請問：他們三人見面後，發現彼此的共同點，應為下列何者？ (A)皆恢復古羅馬帝國的光榮 (B)皆頒布法典且影響後世 (C)皆向外擴張並建立海外殖民地 (D)皆重視信仰並實施政教合一。

13. 十九世紀前期，歐洲有一場重要的會議，會中主張以「正統原則」恢復各國王室的統治權，並維持歐洲各國勢力的平衡。請問：關於這場會議，下列何者敘述錯誤？ (A)成立「關稅同盟」 (B)推翻君主、改行共和 (C)實施社會主義 (D)組織軍隊、發動戰爭 。

14. 十九世紀後期，中歐地區的日耳曼人，最終透過普魯士王國的領導，如願建立統一的國家。請問：該國家的建立，與下列哪一事件最為相關？ (A)德法戰爭戰勝法國 (B)拿破崙慘遭滑鐵盧 (C)維也納會議的召開 (D)門羅宣言的影響 。

15. 某日，大雄同學意外地發現學校經常使用的頒獎配樂，是法國國歌《馬賽曲》。因此上網蒐尋相關資料，得知「正值法國大革命期間，革命政府要抵禦外國入侵，而來自法國南部的馬賽志願軍，便奔赴巴黎支援，起義時高唱此歌而得名。1795年 7月 14日，政府宣布定《馬賽曲》為國歌。」請問：當時法國為何會引發外國入侵？ (A)歐洲多國君主，要求法國成立共和政府 (B)部分歐洲國家的君主，擔憂革命蔓延 (C)拿破崙戰敗後，必須重整歐洲政治秩 (D)歐洲各國君主皆主張，處死路易十六。

16. 小杉同學看到近日一則新聞的標題是「法俄元首通話！馬克宏為烏克蘭問題，與普丁交涉中。」這則新聞的內文，透露出法俄兩國元首的好交情，但這也令小杉同學想起，老師曾說過，西元 1812 年，法俄兩國的關係一度相當緊張，後來發展成為戰爭，最後法國以慘敗告終。請問：上述1812年法俄交戰，應與下列何者有關？ (A)拿破崙的擴張 (B)正統原則的提倡 (C)法國王室的復辟 (D)德意志帝國的建立。

17. 十九世紀美國《法官雜誌》(Judge Magazine)刊登了一幅手繪漫畫。內容有濃厚的白人種族主義色彩。歐美國家普遍認為白種人比較優越，有責任教化其他人種，脫離野蠻與無知的狀態。請問：歐美國家有這種偏狹的思想，是受到下列哪一種理論的影響？ (A)人文主義 (B)保守主義 (C)社會主義 (D)社會達

爾文主義。

18. 九年四班正在籌備一齣歷史劇，該劇的旁白是「西元1789年，法國國王(甲)，為了解決財政問題，召開了(乙)，不料，平民不滿(丙)，憤而另組會議，同年7月，民眾進攻(丁)，揭開了革命的序幕...」請問：假如該歷史劇符合史實，下列敘述何者正確？ (A)甲是路易十四　(B)乙是國民會議　(C)丙是投票方式　(D)丁是凡爾賽宮 。

19. 一本現代世界史著作中，對柏林圍牆的建立這樣寫道：「西元1961年，蘇聯領導人對東柏林的大規模潛逃感到忍無可忍，故而修築了柏林圍牆，這是一條長達28英里的水泥牆，架設了鐵絲網，還有武裝崗哨，這是條不但隔絕了人民對於自由以及民主的希望，也成為冷戰時期的重要標誌性建築物。」請問：柏林圍牆是何時才被拆除？ (A)以色列建國時　(B)東西德統一後　(C)東歐共產政權瓦解時 (D)戈巴契夫簽署辭職書後。

20. 第二次世界大戰結束後，世界局勢出現冷戰的緊張、對峙局面，請問：下列何者「並非」冷戰期間，因美蘇兩陣營的對立而引發的？ (A)蘇臺德區遭割讓　(B)韓戰　(C)柏林危機　(D)古巴危機。

21. 戰間期是指第一次世界大戰結束到第二次世界大戰爆發的期間。根據上述說明判斷，下列何者「**並非**」發生於戰間期之中？ (A)共產國際的成立　(B)法西斯黨的成立 (C)納粹黨的成立　(D)北大西洋公約組織的成立。

22. 1930年代，英、法一味採取姑息政策，希望避免戰爭，直到哪一條約簽訂後，德國入侵波蘭，英、法的態度才轉趨強硬？ (A)《德蘇互不侵犯條約》　(B)《慕尼黑協定》 (C)《凡爾賽條約》 (D)《聯合國憲章》。

23. 政黨或個人權力龐大，以強制或鎮壓手段，全面監督並管制人民的生活與行動，通常被稱作「極權政治」，興起於戰間期的「極權政治」，其政權常以打擊哪個黨派為號召？ (A)青年義大利黨　(B)納粹黨 (C)法西斯黨(D)共產黨。

24. 二次大戰後，散居世界各地的猶太人在美國幫助下建立了以色列，他們認為某地是祖先的原居地，藉由多次領土擴張強迫世居此地的穆斯林遷移，雙方因此爆發戰爭。請問：以色列人認為祖先的原居地是下列何處？ (A)阿拉伯半島　(B)巴基斯坦　(C) 烏克蘭　(D) 巴勒斯坦。

25. 第二次世界大戰結束後，亞、非的新興國家在印尼萬隆舉行亞非會議，會議中提出「第三世界」的概念。請問：下列何者**並非**第三世界的主要主張？(A) 反共產主義　(B) 反殖民主義 (C) 反帝國主義 (D) 在國際事務上互相合作。

26. 第二次世界大戰結束後，在幾個國家的推動下，聯合國正式成立。請問：聯合國總部位於附圖中的何處？ (A)甲　(B)乙 (C)丙　(D)丁。

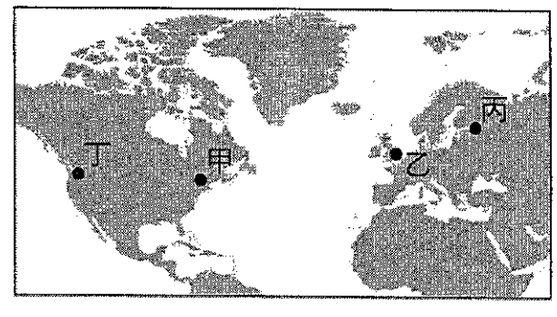

27. 第一次大戰後，美國基於戰爭的債務難以收回及參與戰爭付出龐大的代價，減少參與國際事務之餘，也開始提高關稅以保護本國產業。此時美國盛行何種思潮？ (A)民族主義 (B)帝國主義 (C)孤立主義 (D)民族自決。

28. 世紀義大利的建國運動過程中，馬志尼曾強調「恢復古羅馬光榮」，以喚起民眾的愛國心，請問：下列何人也曾於一次世界大戰後提出「恢復古羅馬光榮」的主張？ (A)希特勒 (B)勞合喬治 (C)史達林 (D)墨索里尼。

29. 俄國因爲參加第一次世界大戰而面臨嚴重的經濟衰退與糧食危機，引發人民不滿，最後爆發一連串革命行動。根據俄國在第一次世界大戰期間國內發生的大事排序，下列何者正確？ (A)二月革命→推翻君主專制→十月革命→建立共產政權 (B)二月革命→建立共產政權→十月革命→推翻君主專制 (C)十月革命→推翻君主專制→二月革命→建立共產政權 (D)二月革命→十月革命→推翻君主專制→建立共產政權。

30. 1917 年初，第一次世界大戰期間，德國欲先行制服英國以結束戰爭，於是參謀總長魯登道夫提出建議，主張無限制使用潛艇，打擊聯軍海上運輸。德國採行這樣的政策所導致的結果為何？ (A)俄國退出戰場 (B)英國退出戰場 (C)義大利參戰 (D)美國參戰。

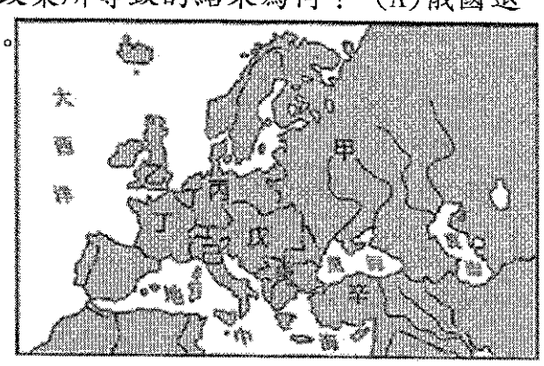

31. 右圖是第一次世界大戰前歐洲形勢圖。請問：哪一組國家同屬「協約國」？ (A)乙丁己 (B)甲乙丁 (C)丙戊己 (D)丙戊辛。

32. 墨索里尼與希特勒取得政權有共同的背景，下列敘述正確的有哪些？(甲)戰敗和約的屈辱(乙)都以武力發動政變(丙)國家經濟困難(丁)共產黨勢力活躍 (A)甲乙 (B)乙丙 (C)丙丁 (D)甲丁。

33. 「法西斯主義」是一種強調民族國家至上的政治學說，它強調個人應為國家無條件犧牲奉獻，並且反對民主和社會主義，主張種族主義，應採取黷武的軍事外交政策，對領袖高度效忠。請問：第一次世界大戰後，「法西斯主義」高喊社會正義原則，承諾協助勞工大眾與中產階級改善其生活與社會地位，對於工商企業界則承諾恢復社會秩序，所以逐漸在下列哪些地區受到支持，而導致極權政權的興起？ (A)英、法 (B)德、義 (C)日、美 (D)德、蘇。

34. 一位史學家說道：「二次大戰前夕，英國與法國曾簽署《慕尼黑協定》，犧牲他國權益，來平息希特勒的野心，但德國並未因此滿足，反而與蘇聯簽下協議。英、法忍無可忍，才決定對德宣戰。但德國攻勢凌厲，一開始便取得優勢，故荷蘭、比利時、盧森堡等國皆在短時間內投降，僅剩英國獨立與德國抗衡，直到一場意外的攻擊事件爆發，美國決定對軸心國宣戰，戰局才逐漸扭轉過來。」請問：《慕尼黑協定》中主要是犧牲了何國的權益？ (A)捷克 (B)奧地利 (C)匈牙利 (D)波蘭。

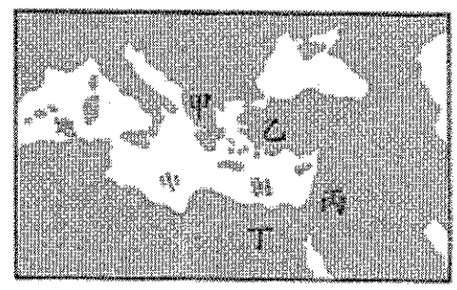

35. 吉伯是電視臺的記者，最近因為以色列和阿拉伯國家的衝突再起，電視臺於是派他到當地實地採訪。請問：吉伯的目的地，應在下圖中的何處？ (A)甲 (B)乙 (C)丙 (D)丁。

36. 羅斯福總統曾發表演說：「日本就在整個太平洋區域發動了一場突然襲擊，昨天和今天的事實說明了一切，美國人民有了共識，並完全明白我們國家的生存和安全所受到的影響。我要求國會宣布，自西元1941 年 12 月 7 日星期日日本對我國無端進行卑鄙的進攻，美國同日本帝國之間已處於戰爭狀態。」請問：這個事件最後導致了什麼樣的結果？ (A)二次大戰歐戰爆發，死傷慘重 (B)中國遭到日本南京大屠殺 (C)美國於廣島、長崎投下原子彈 (D)蘇聯對日作戰，使戰後共產勢力擴張。

37. 第一次世界大戰與第二次世界大戰為人類近代歷史上兩次重大浩劫。請問：關於兩次世界大戰的比較，下列敘述何者正確？　(A)一戰的導火線為塞拉耶佛事件；盧溝橋事變則導致二戰亞洲戰場的爆發　(B)兩次大戰都是同盟國獲勝　(C)兩次大戰英國都是中途參戰　(D)兩次大戰後均設立國際組織，且皆發揮制裁侵略的功能。

38. 右圖是烏克蘭的地理位置，烏克蘭原本隸屬於蘇聯，是某個事件後才獨立成國家。請問：關於這個歷史演變，下列說明何者正確？　(A)第二次世界大戰後，烏克蘭獨立建國　(B)烏克蘭屬於第三世界國家，二戰後受到英、美扶植而獨立　(C)烏克蘭積極推動「不結盟運動」　(D)戈巴契夫的改革導致蘇聯解體，底下加盟共和國紛紛獨立。

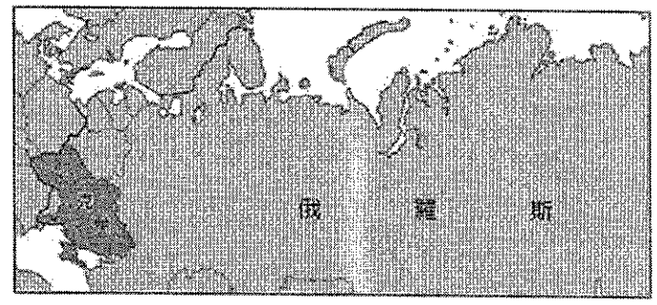

39. 1914 年歐洲爆發的一起奧匈帝國王儲被暗殺事件，其政府要求嚴懲兇手，此要求引起塞爾維亞人不滿，又加上列強勢力介入，最後引發全面性的戰爭。上述事件發生在下列何處？　(A)巴爾幹半島　(B)伊比利半島　(C)義大利半島　(D)諾曼第半島。

40. 右圖是西元 1962 年的一幅政治漫畫，說明當時的國際局勢為何？(A)民主陣營與共產集團的冷戰　(B)三國同盟與三國協約兩大軍事陣營敵對　(C)軸心國與反軸心國的對抗　(D)柏林危機過後，德國分裂。



41. 將馬克思思想付諸於現實而建立全世界第一個共產政府的人是下列何者？(A)列寧　(B)史達林　(C)戈巴契夫　(D)普丁。

42. 一列火車在德國官方祕密安排下，從蘇黎世出發前往俄國，車上乘客包括列寧及其布爾什維克黨同志，這些人曾因為反對俄國政府而流亡海外。列寧等人沿途經過德國、瑞典、芬蘭，最後抵達俄國的首都彼得格勒(今聖彼得堡)。半年後，他們領導革命，推翻臨時政府，組織新的政權，對俄國產生重大影響。當時德國官方安排這班列車的目的，最可能為下列何者？【111 教育會考】
(A)與俄國結盟對抗拿破崙　(B)欲緩和冷戰東西對立局勢　(C)遵守《德蘇互不侵犯條約》　(D)為使俄國退出第一次世界大戰

43. 右圖是日本繪製的第二次世界大戰形勢圖，三種圖例代表與日本三種不同關係。從圖中標示的圖例，可得知這是 1941 年底太平洋戰爭爆發後的世界形勢，最主要的判斷依據應為下列何者？【111 教育會考】
(A)英國和德國使用不同圖例　(B)英國和美國使用相同圖例　(C)朝鮮和日本使用相同圖例　(D)德國和日本使用相同圖例

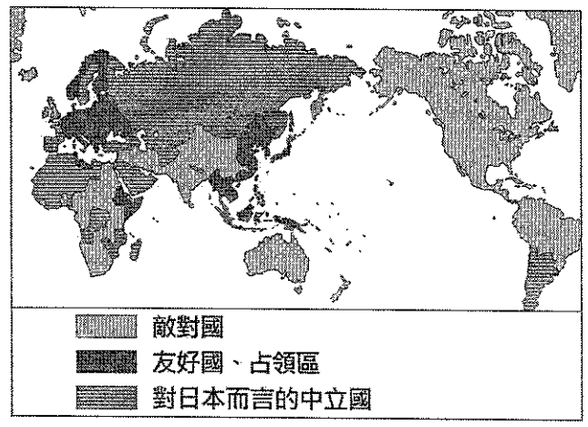

44. 右圖是某一時期的政治宣傳漫畫，圖中「大手」代表當時的國際組織，領導各國對抗侵略者。根據內容判斷，該國際組織最可能是下列何者？【111 教育會考】
(A)聯合國　(B)國際聯盟　(C)華沙公約組織　(D)石油輸出國家組織

45. 右圖中的甲、乙、丙三人是某三個國家的元首，請問：被迫接受割地、賠款、削減軍備的丙，應是哪一國家的元首？　(A)俄國　(B)德國　(C)鄂圖曼帝國　(D)奧匈帝國。

二、題組題：請將答案劃入答案卡中

※請閱讀下列選文，並回答第 46 到 50 題。49-52 題，每題一分

> 1751年，國內的皇家學會發出通告，懸賞徵求新式紡紗機。一線工匠們開始加入新式紡紗機的設計與研究，各式各樣的工作機陸續被發明出來。然而，蒸汽動力機的出現，才是產業突飛猛進的關鍵。1769年，本國瓦特先生改良的蒸汽機，成功申請到專利，不久便應用在棉紡織業上，為生產提供了強大、持續、穩定、快速的動力。從此，煤礦的需求量大增，鋼鐵產量供不應求，大型工廠拔地而起，機器運轉的聲響不絕於耳，大批人口湧入新興城市就業。這些現象，從本國開始，迅速蔓延到其他地區，甚至工業的發展，成為向外擴張的優勢。

46. 請問選文內容所描述的國家，曾有下列哪一項帝國主義的擴張行動？

(A)十九世紀末壟斷拉丁美洲的香蕉產業　(B)以保護東南亞傳教士為由，殖民越南

(C)終結蒙兀兒帝國在印度的統治　(D)成立「關稅同盟」進而達到國家的統一。

47. 選文內容所描述的變革，後來為人類帶來了重大影響。請問：關於其影響，下列何者錯誤？

(A)工人階級的生活得到改善　(B)貧富差距的問題逐漸擴大

(C)馬克思共產主義學說出現　(D)強國競爭導致國際局勢緊張。

48. 十八世紀以來，英國成為工業革命的發源地。下列何者並非英國能夠成為工業革命發源地的原因？ (A)煤鐵資源豐富 (B)最早通過專利法 (C)馬克思提倡共產主義 (D)擁有長期海外殖民與貿易經驗。

> **19 世紀時，帝國主義持續擴張，由於各國在爭奪殖民地的過程中，常因彼此間的利益衝突，導致國際情勢關係緊張，因**

49. 第一次大戰期間，德國使用哪一項新武器波及美國商船，引發美國嚴重抗議，成為美國對德宣戰的原因之一？(A)坦克 (B)潛水艇 (C) 飛機 (D)毒氣。

50. 第一次大戰期間，德國煽動下列哪一個國家反美，最終使得美國對德國宣戰？(A)古巴 (B)日本 (C)俄國 (D)墨西哥。

51. 第一次大戰末期，有人提出「十四點和平原則」作為戰後秩序重整的參考。請問：提出「十四點和平原則」的是下列何者？ (A)威爾遜 (B)羅斯福 (C)勞合喬治 (D)邱吉爾。

52. 冷戰時期，蘇聯成立了哪一個組織，以象徵共產集團的壯大？ (A)北大西洋公約組織 (B)第三世界 (C)石油輸出國家組織 (D)華沙公約組織。

花蓮縣立吉安國中 111 學年度第二學期　九年級　社會科　期中考

班級：九年　班　　姓名：　　座號：

答案欄

1.	2.	3.	4.	5.	6.	7.	8.	9.	10.
11.	12.	13.	14.	15.	16.	17.	18.	19.	20.
21.	22.	23.	24.	25.	26.	27.	28.	29.	30.
31.	32.	33.	34.	35.	36.	37.	38.	39.	40.
41.	42.	43.	44.	45.					
46.	47.	48.	49.	50.	51.	52.			